1. Определите сумму молярных масс (г/моль) органических веществ А и Б, полученных в результате следующих
превращений (X_1 — НЕорганический продукт реакции):

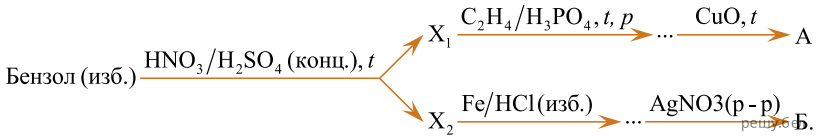

2. Определите сумму молярных масс (г/моль) органических веществ А и Б, полученных в результате следующих
превращений (X_1 — НЕорганический продукт реакции):

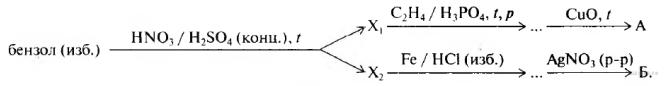
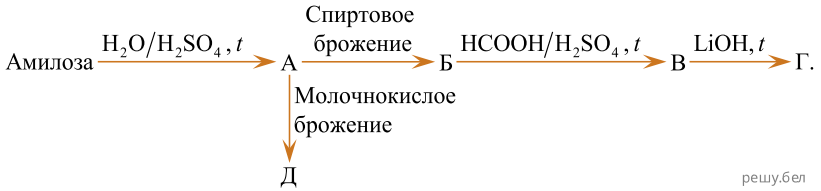
3. Определите сумму молярных масс (г/моль) органических веществ молекулярного строения Б, Д и ионного строения Г, полученных в результате следующих превращений: